東大生監修　レク×脳トレ

計算ピラミッド

4

お名前　　日付　　年　　月　　日

隣り同士の数を足して、上のマスに答えを記入してください。

（例）

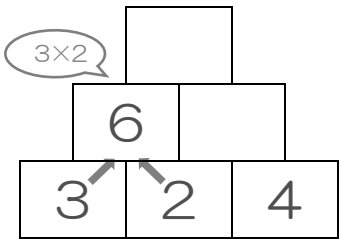

（1）

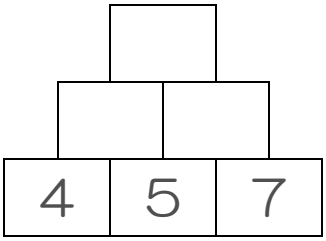

（2）

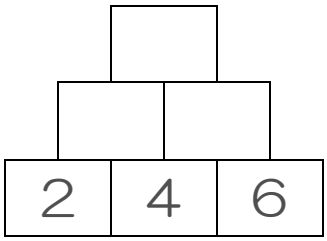

（3）

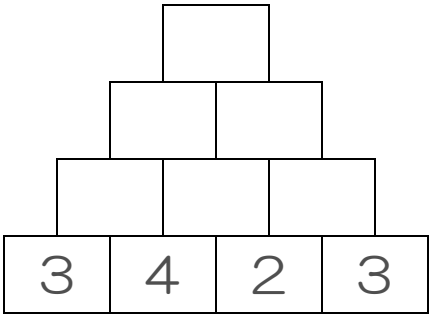

（4）

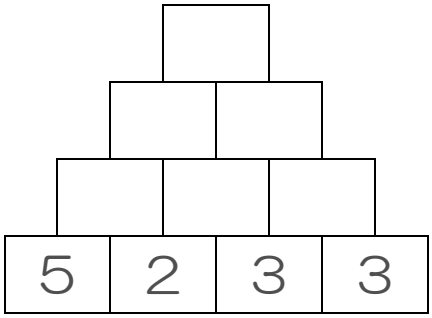

（5）

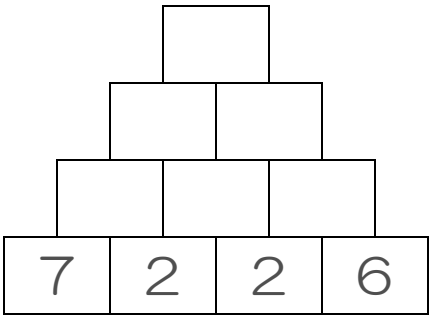

（6）

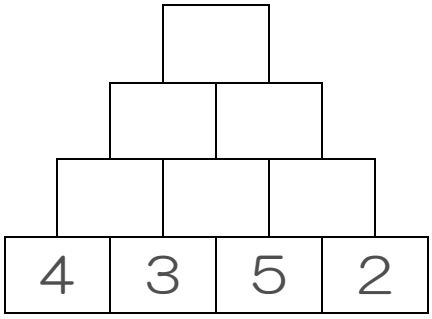

他のプリントを見る

レク，脳トレ動画が使い放題
レクシル